نام و نام خانوادگی: | پایه: هشتم | آزمون: ریاضیات
تاریخ: ۹۴/۹/ | آموزشگاه: شهید مدرس | وقت: ۵۰ دقیقه

ردیف | بارم

۱ | ۱/۲۵ | حاصل را به صورت یک عدد توان‌دار بنویسید.

$(۸^۲ \times ۲^۷) \div ۳^{۱۳} =$

$۲۵^۶ \times ۷۵^۳ \times ۳^۶ =$

$\frac{(۱/۵)^۸ \times ۸^۸}{(۳/۶)^۵ \div (۳)^۵} =$

۲ | ۲/۲۵ | حاصل عبارت‌های جبری را به دست آورید. (با راه‌حل)

$۳x(۲x + ۵y) - ۶x^۲ + ۷x y =$

$(۲x - ۸)(۳x + ۸) =$

۳ | ۱/۵ | اندازه زاویه‌های خواسته شده را بنویسید. (با راه‌حل)



۴ | ۱/۵ | (ب ۲- ۲- ۳) و (ک ۳- ۳- ۳) دو عدد ۳۲ و ۸۰ را بنویسید.
(ب، ۶ دل)

۵ | ۱ | معادله روبرو را حل کنید. $۱x - ۱۵ = ۳x + ۵$

۶ | ۱/۵ | اعداد اول بین ۱۰ تا ۳۰ را به دست آورید.

۱۴ | ۲/۵ | الف) مساحت و محیط شکل را با عبارت جبری بنویسید.
ب) با استفاده از مقدار $x = ۲$ و $y = ۳$ آن را حساب کنید.

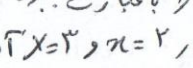

نام و نام خانوادگی: | پایه: هشتم | آزمون: ریاضیات
تاریخ: ۹۴/۹/ | آموزشگاه: شهید مدرس | وقت: ۵۰ دقیقه

ردیف | بارم

۷ | ۱ | کسر زیر را ساده کنید.

$\frac{(-۵۷) \times (-۸۰)}{(-۹۵) \times (+۳۲)} =$

۸ | ۰/۷۵ | اندازه هر زاویه پنج‌ضلعی منتظم ... درجه است.
دو خط موازی با یک خط خود با هم ... هستند.
مجموعه اعداد ... زیر مجموعه اعداد صحیح هستند.

۹ | ۱ | جدول را کامل کنید.

x	$-\frac{۱}{۳}$	۰	$+\frac{۱}{۳}$
$y = -۳x + ۱$	۰	۱	۰

۱۰ | ۰/۷۵ | تجزیه کنید. $۱۲۱x^۲y^۴ - ۵۵x^۳y^۳ =$

۱۱ | ۲ | نقاط $A = \begin{bmatrix} -۴ \\ -۵ \end{bmatrix}$ و $B = \begin{bmatrix} +۲ \\ -۲ \end{bmatrix}$ را مشخص و بردار $\overrightarrow{BA}$ را رسم و جمع مناظر را بنویسید.

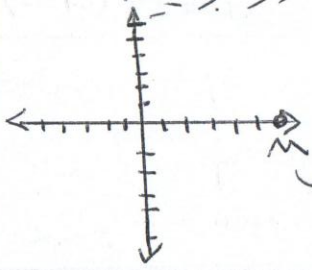

الف) از نقطه M بردار MN را مانند $\overrightarrow{BA}$ رسم کنید.

۱۲ | (۵) | چهارکسر بین ۰ و ۱- را بنویسید.

۱۳ | ۱/۵ | هشت برابر عددی از ده برابر است با پنج برابر همان عدد به اضافه ۱۵ عدد چیست؟