| | | |
|---|---|---|
| **بسمه تعالی** | | **تاریخ امتحان:** |
| **نام و نام خانوادگی:** | | **ساعت امتحان:** |
| **پایه: سوم** | وزارت آموزش و پرورش جمهوری اسلامی ایران | **مدت امتحان: ۴۵دقیقه** |
| **نام درس: ریاضی** | | |
| **نظرکلی آموزگار:** | | **نظردانش آموز:** |

| ردیف | سوالات |
|---|---|
| ۱ | **الگوهای عددی زیر را ادامه دهید.**<br>**۳۰-۲۷-۲۴-.....-.....-.....-.....-.....**<br>**۴۵-۴۰-۳۵-.....-.....-.....-.....-.....**<br>**۶۰-۵۸-۵۶-.....-.....-.....-.....-.....**<br>**۶۰۰۰-.....-.....-.....-.....-۱۰۰۰** |
| ۲ | **تعداد مربع های شکل را به بشمارید(به صورت چندتاچندتا)**<br> 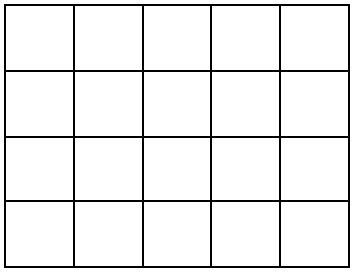 <br>**جواب:** ..... |
| ۳ | **جاهای خالی را کامل کنید**<br> 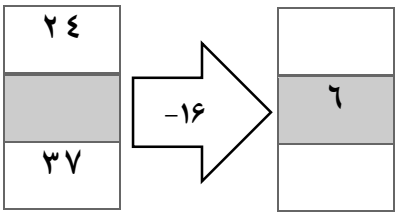 <br> 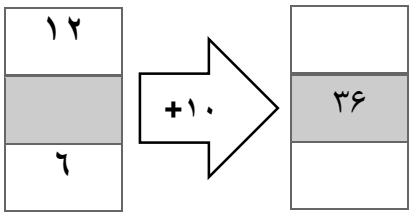 |

| | |
|---|---|
| ۴ | **حاصل جمع های زیر را بنویسید.**<br>**۱۰+۴+۷+۹+۶=**<br>**۶+۳+۵+۸+۱۱+۲=**<br>**۴+۶+۹+۷+۵+۱۲=** |