

تکلیف هفته دوم مهرماه

www.dabirtehran.ir

پایه سوم

دبستان

۰۹۱۲۷۶۳۷۴۱۴

مدرس خوب

www.dabirtehran.ir

۷۷۱۹۸۰۳۷ - ۴۴۴۲۲۹۶۷

مدرس خوب

تدریس خصوصی و گروهی

www.dabirtehran.ir

۰۹۱۲۷۶۳۷۴۱۴

تدریس خصوصی

توسط اساتید دانشگاه، دبیران رسمی و مولفان کتاب

کلیه دروس کلیه مناطق در منزل شما یا موسسه

دریافت شهریه به صورت اقساط طی دوره

پیگیری مستمر و برگزاری آزمون های پیشرفت تحصیلی رایگان طی دوره آموزشی

در صورت عدم رضایت جلسه اول رایگان

ارائه سوابق دبیران

شمال ۲۲۸۹۳۸۷۴ غرب ۴۶۰۴۹۲۳۲ شرق و مرکز ۷۷۱۹۸۰۳۷

مدرس خوب
www.dabirtehran.ir
۷۷۱۹۸۰۳۷ - ٤٤٤٢٢٩٦٧

به نام خدا

دبستان پسرانه فروغ نکونام(۱)

تکلیف هفته دوم مهر

نام:

نام خانوادگی:

کلاس سوم

طراح: رحمان نژاد

شاید چیزایی که میخوایم واسمون اتفاق بیفتن و نمیفتن واسه اینه که در حد ما نیستن ، از اون بهتر لیاقت ماست!

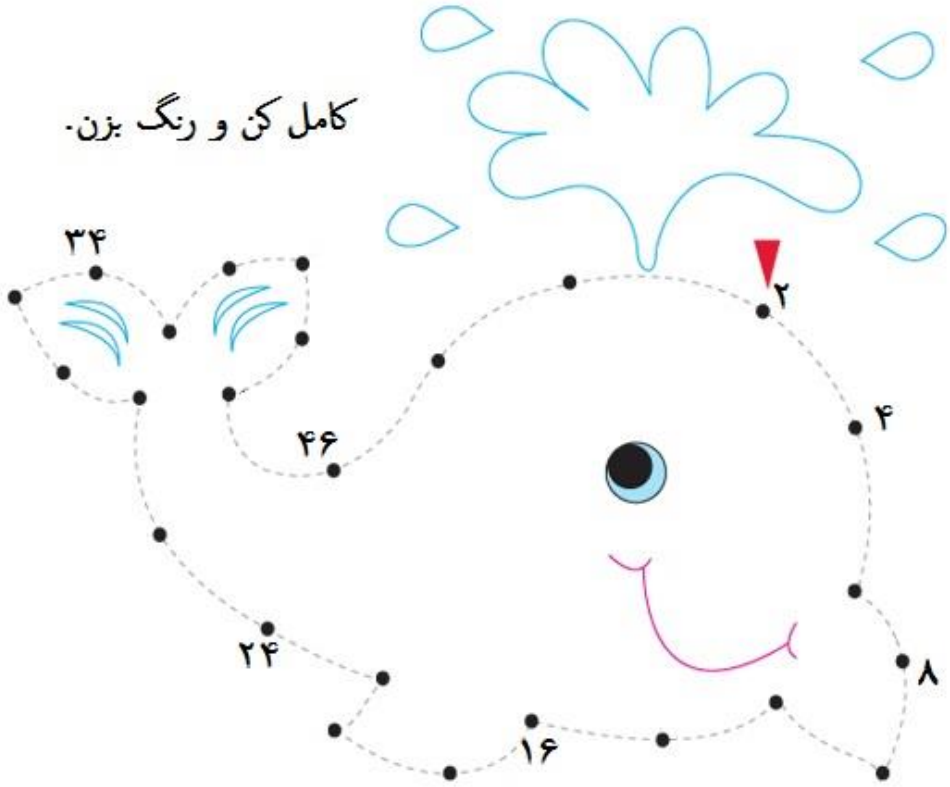

چیستان

۱- اون چیه که خیلی تیغ داره ولی نه ساقه، نه برگ و نه ریشه داره؟

۲- کشاورزی ۱۰۱ تا گوسفند داشت.

همه به جز ۹ تای آن ها مردند. او حالا چند تا گوسفند دارد؟

نظر ولی محترم : .....

.....

.....

به این زنبورهای تپلی کمک کنید جای خالی را پر کند.

فارسی



ان



ها



ات

درخت +.....=..... پسر+.....=.....

.....+.....= لحظات کتاب+.....=.....

کلمات یعنی .....

دختران یعنی .....

سیب ها یعنی .....

مدرس خوب
www.dabirtehran.ir
۷۷۱۹۸۰۳۷ - ۴۴۴۲۲۹۶۷

متن درس محله ما را بخوان و کلمات خواسته شده را بنویس.

کلماتی که تشدید دارند	کلماتی که صدای ص دارند	کلماتی که صدای ط دارند

ریاضی

الگوی شکلی زیر را ادامه دهید.

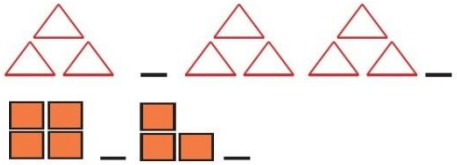

در جای خالی عدد مناسبی بنویس.

۵ -۱۰-.....-۲۰-.....-۳۰

۷-۱۴-.....-.....-.....-۴۲

۲۳۱-.....-۴۳۱-۵۳۱-.....-.....

برای الگوی عددی زیر شکل مناسب بکش.



بستنی فروشی هر بستنی را ۵۵۰ تومان می خرد و ۶۰۰تومان می فروشد.

الف)از فروش هر بستنی چقدر سود می کند؟

ب)فروش هر سه بستنی چقدر سود برایش دارد؟

ج) اگر یک بستنی آن آب شود چند تا بستنی باید بفروشد تا ضرر آن بستنی جبران شود؟